رؤية المدرسة: بيئة متميزة لتعليم راقٍ.

St Fatima Language Schools®
Al Hegaz

مدرسة سانت فاتيما ـ الحجاز

الاســـــــــم : .....

الفصـــــــــل : .....

اسم المـــدرس : .....

الدراسات الإجتماعية للصف الخامس الابتدائي

الفصل الدراسي الأول

للعام الدراسي 2027/2026

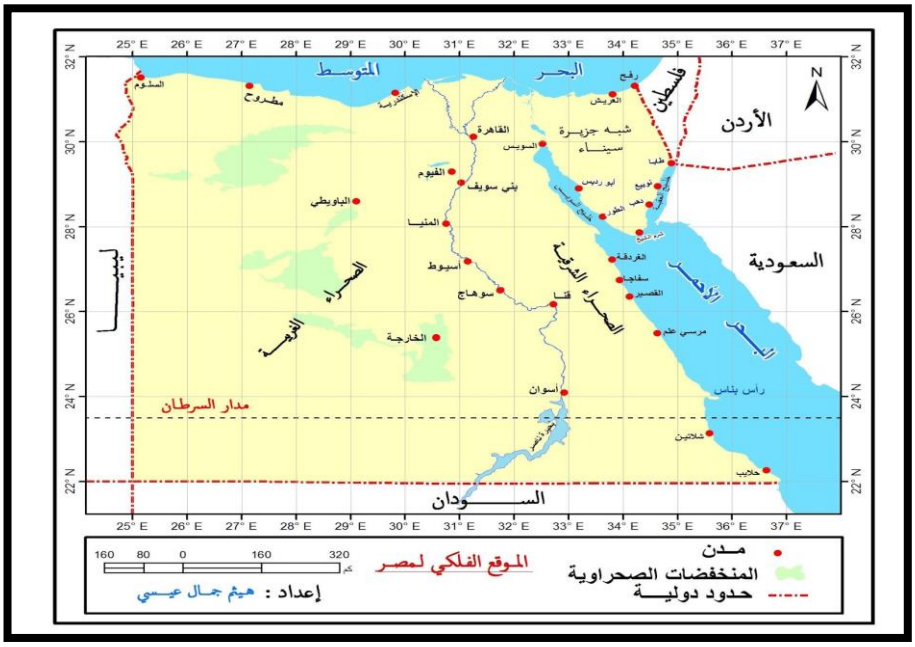

تحت إشراف /

قسم الدراسات الإجتماعية

الوحدة الاولي : مصر موقع متميز وطبيعة متنوعة

الدرس الاول : موقع مصر الفلكى



- **ما المقصود بكل من :-**

- شبكة الاحداثيات:-

يقصد بها خطوط الطول و دوائر العرض وهي تساعدنا في تحديد موقع مصر علي خريطة العالم

- خطوط الطول :-

انصاف دوائر رأسية تصل بين القطبين الشمالي والجنوبي و عددها 360 خط طول

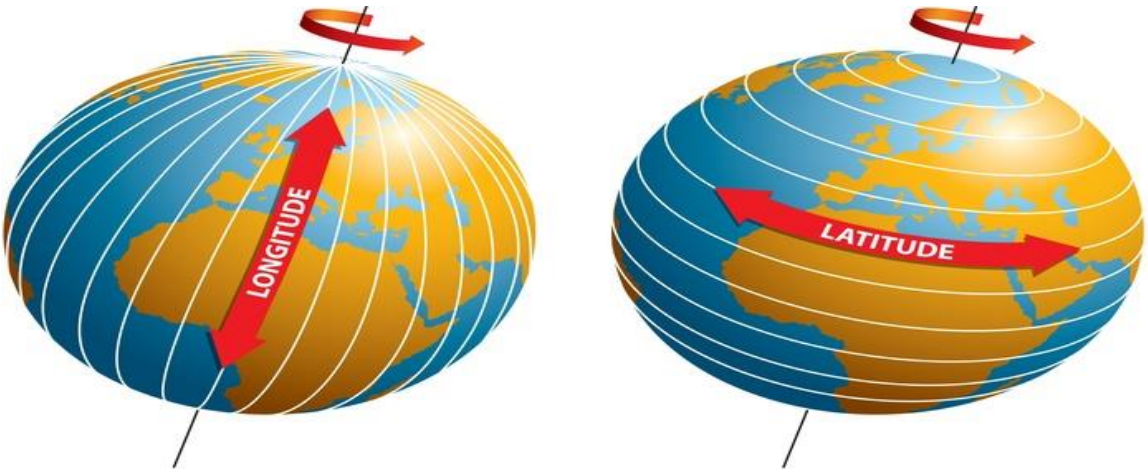

- **دوائر العرض** :-

" دوائـر أفقيـة غيـر متسـاوية الحجـم ترسـم حـول مجسـم الكـرة الأرضـية وتصـغر كلمـا أتجهنـا شـمالاً أو جنوبـاً أكبرهـا خـط الإسـتواء وعـددها 180 دائرة عرض

- **خط جرنتش** :-

" هـو خـط الطـول الرئيسـى ودرجتـة صـفر ويقسـم الأرض إلـى قسـمين متساويين شرقاً وغرباً "

- **دائرة الإستواء :-**

" هـى دائـرة العـرض الرئيسـية ودرجتهـا صـفر وتقسـم الكـرة الأرضـية إلـى قسمين متساويين شمالاً وجنوباً "

- **مدار السرطان** :-

" هى دائرة عرض درجتها 23.5 شمال دائرة الاستواء "

- **مدار الجدى** :-

" هى دائرة عرض درجتها 23.5 جنوبً دائرة الاستواء "

- **الدائرة القطبية الشمالية:- درجتها 66.5 شمال دائرة الاستواء**
- **الدائرة القطبية الجنوبية:- درجتها 66.5 جنوب دائرة الاستواء**

السؤال الأول : أكتب تفسيراً واحداً :

1-قيام العلماء برسم خطوط الطول ودوائر العرض ؟

ج) لتحديد مواقع الأماكن بدقة على سطح الأرض

2-أهمية دوائر العرض فى حياتنا ؟

ج) - تحديد المواقع شمالاً و جنوباً

- معرفة أحوال المناخ من حيث الحرارة و الرياح و الأمطار

السؤال الثانى : أنظر الخريطة التى أمامك ثم اجب عما يلى :

1-أكمل

- **تقع معظم الأراضى المصرية فى الأقليم المناخى .....**
- **خط الطول الرئيسي هو.....**

2-أختر

- **تدور الارض حول نفسها مرة كل .....**

(24 يوم – 24 ساعة – اسبوع – سنة)

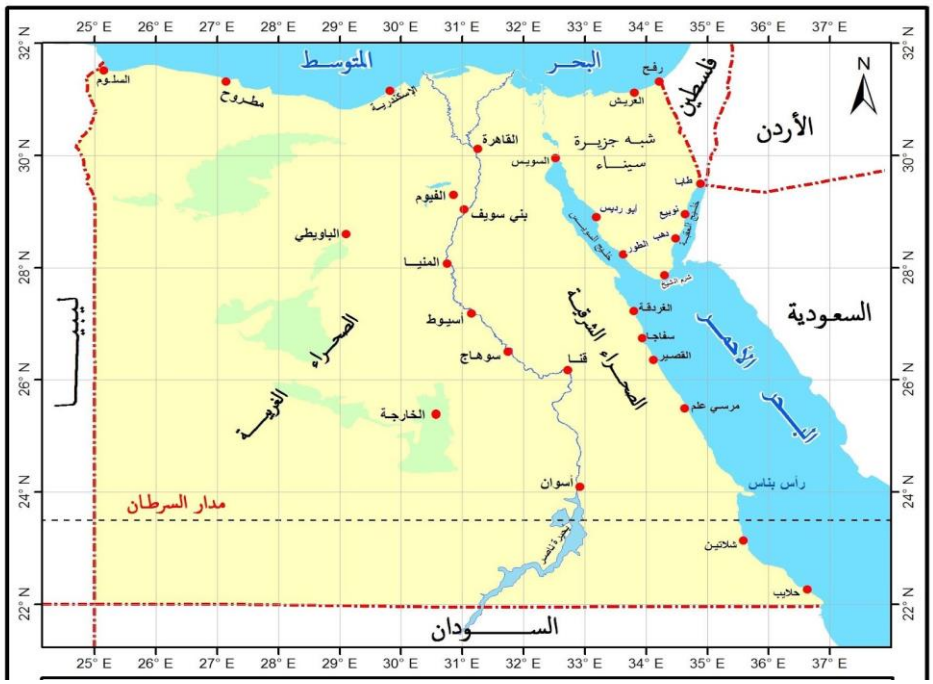

السؤال الرابع : قارن بين خطوط الطول ودوائر العرض من حيث التعريف والأهمية :

وجه المقارنة	خطوط الطول	دوائر العرض
التعريف	أنصاف دوائر رأسية تبدأ من القطب الشمالي و تنتهى عند القطب الجنوبي و يعد خط جرنيتش خط الطول الرئيسي ودرجته (صفر) و يقسم الكرة الأرضية إلي نصفين متساويين شرقا وغربا 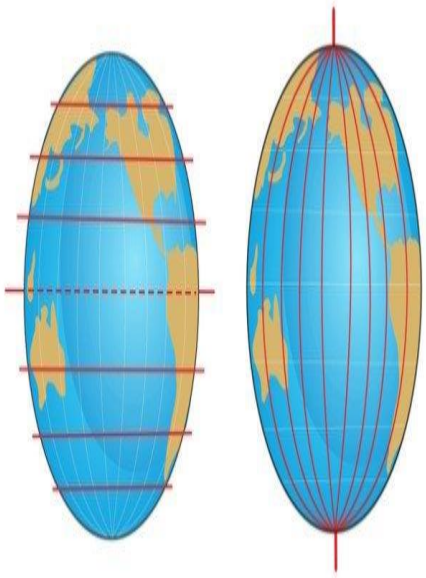	دوائر أفقية ترسم حول الكرة الأرضية و هى غير متساوية الحجم أكبرها دائرة الاستواء وتصغر هذه الدوائر كلما ابتعدنا شمال أو جنوب دائرة الاستواء دوائر العرض الرئيسية 1- دائرة الاستواء: تقسم سطح الأرض إلي جزئين متساويين و درجتها صفر 2- دائرة مدار السرطان: تقع عند دائرة 23.5 شمال دائرة الاستواء 3- دائرة مدار الجدى: تقع عند دائرة عرض 23.5 جنوب دائرة الاستواء
الأهمية	1- تحديد المواقع علي سطح الأرض شرقا و غربا 2- تحديد الزمن ومعرفة فرق التوقيت بين الأماكن علي سطح الأرض	1- تحديد مواقع الأماكن شمالا وجنوبا 2- التعرف علي أحوال المناخ 3- تقسيم سطح الأرض إلي أقاليم مناخية

الدرس الثاني

مظاهر سطح مصر

- تتميز مصر بالعديد من مظاهر السطح مثل :

(الجبال والهضاب والبحار والسهول والأودية الجافة)

***أهم خرائط الدرس :-**



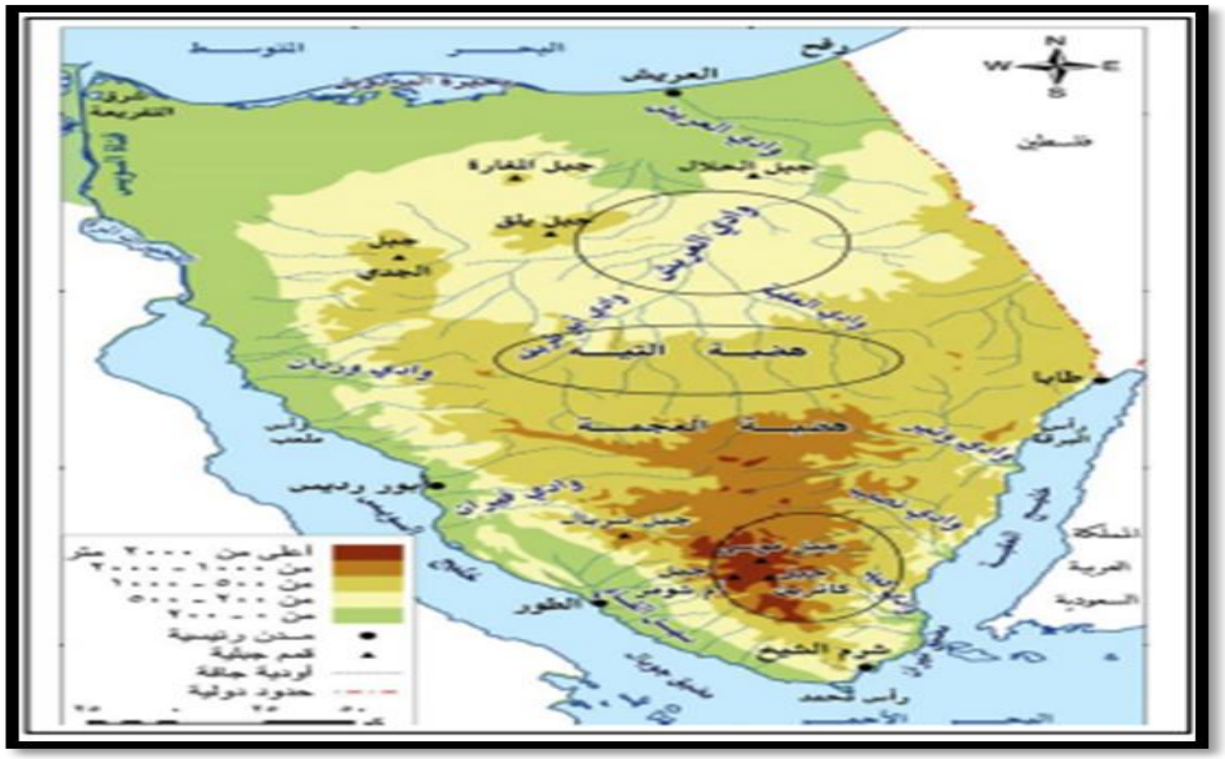

شبة جزيرة سيناء



الصحراء الشرقية

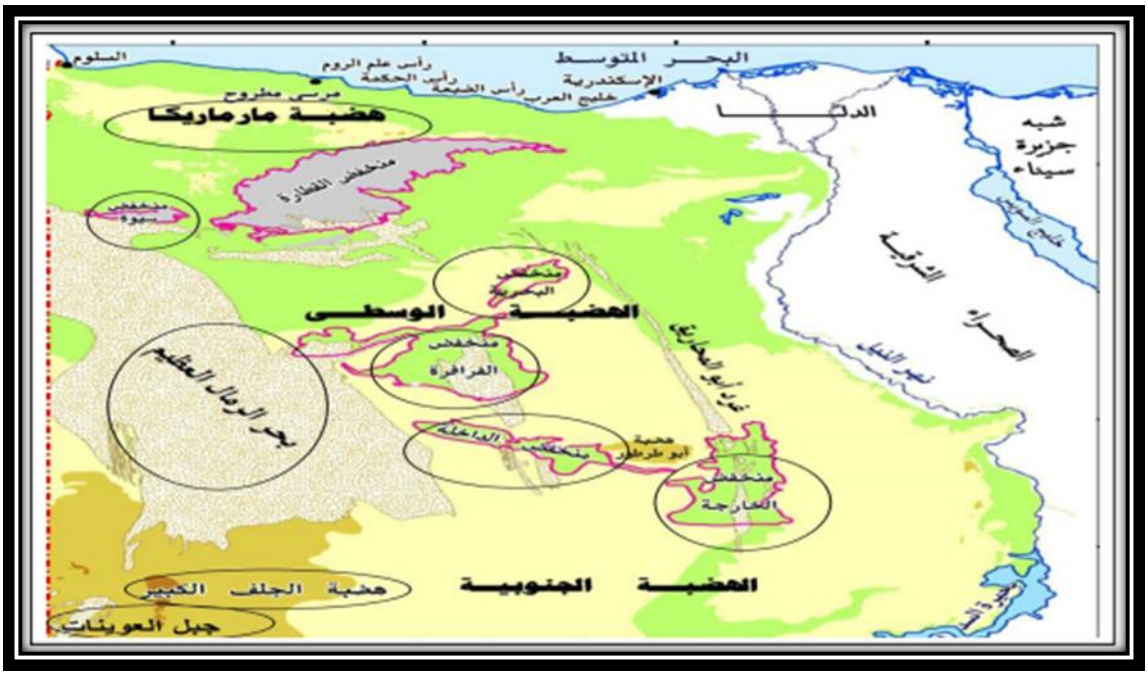

الصحراء الغربية

التعريفات الواردة بالدرس

(الجبال والهضاب والبحار والسهول والأودية الجافة)

*** الدلتا :**

- أراض خصبة كونها نهر النيل نتيجة ترسيب الطمي عند المصب.

*** الوادي :**

- الاراضي الخصبة الممتدة علي جانبي النهر.

*** الاودية الجافة :**

- هي اودية كانت تملؤها المياه ثم جفت.

*** العوامل الباطنية :**

- التي تحدث في باطن الارض مثل الالتواءات والانكسارات.

*** العوامل الخارجية :**

- التي تحدث علي سطح الارض مثل التعرية بفعل الرياح والتعرية المائية.

*ملخص الدرس:-

الاقسام التضاريسية فى مصر

1- الوادي والدلتا ومنخفض الفيوم.

وادي النيل	الدلتا	منخفض الفيوم
هي الاراضي التي تكونت علي جانبي النهر ويمتد من الحدود الجنوبية لمصر حتي القاهرة	عبارة عن ارض خصبة تكونت عند مصب نهر النيل من ترسيب الطمي وهي علي شكل مثلث	يقع في الصحراء الغربية ويتصل بنهر النيل عن طريق ترعة بحر يوسف مما جعله متميزا عن باقي المنخفضات

2- اهم ظواهر الصحراء الغربية.

في الشمال	في الوسط	في الجنوب
هضبة مارمريكا	تنتشر المنخفضات التي تكونت بسبب التعرية الهوائية والمائية مثل منخفض القطارة وهو غير مأهول بالسكان ومنخفضات سيوة – البحرية- الفرافرة- الداخلة- الخارجة- وهي مأهولة بالسكان -بحر الرمال العظيم بين مصر وليبيا	هضبة الجلف الكبير وجبل العوينات

3- الصحراء الشرقية:-

جبال البحر الاحمر	الاودية الجافة	الهضاب
أعلاها جبل شايب البنات ،تكونت نتيجة حركات انكسارية	مثل وادي قنا	مثل هضبة المعازة في الشمال وهضبة العبابدة في الجنوب

4- شبه جزيرة سيناء

في الجنوب	في الوسط	منخفض الفيوم
جبل سانت كاترين وجبل موسي	هضبة التيه يقطعها وادي العريش	يوجد السهول الساحلية وبعض الجبال مثل جبل الحلال

- **أسئلة مجاب عنها:-**

السؤال الاول:أذكر تفسيراً واحداً :

1- معظم مناطق الصحراء الغربية مأهولة بالسكان .

ج) لوجود المياه الجوفية العذبة و قيام الزراعة و التعدين

2- تكون سلسلة جبال البحر الأحمر .

ج) نتيجة الحركات الإنكسارية التي أصابت الصخور الصلبة فأدت لأرتفاع بعضها و انخفاض البعض الاخر

1-تكون المنخفضات فى الصحراء الغربية.

ج) بسبب التعرية المائية و الهوائية

*** اجب عن الاسئلة الاتية:-**

السؤال الأول : أنظر للخريطة ثم أجب :-

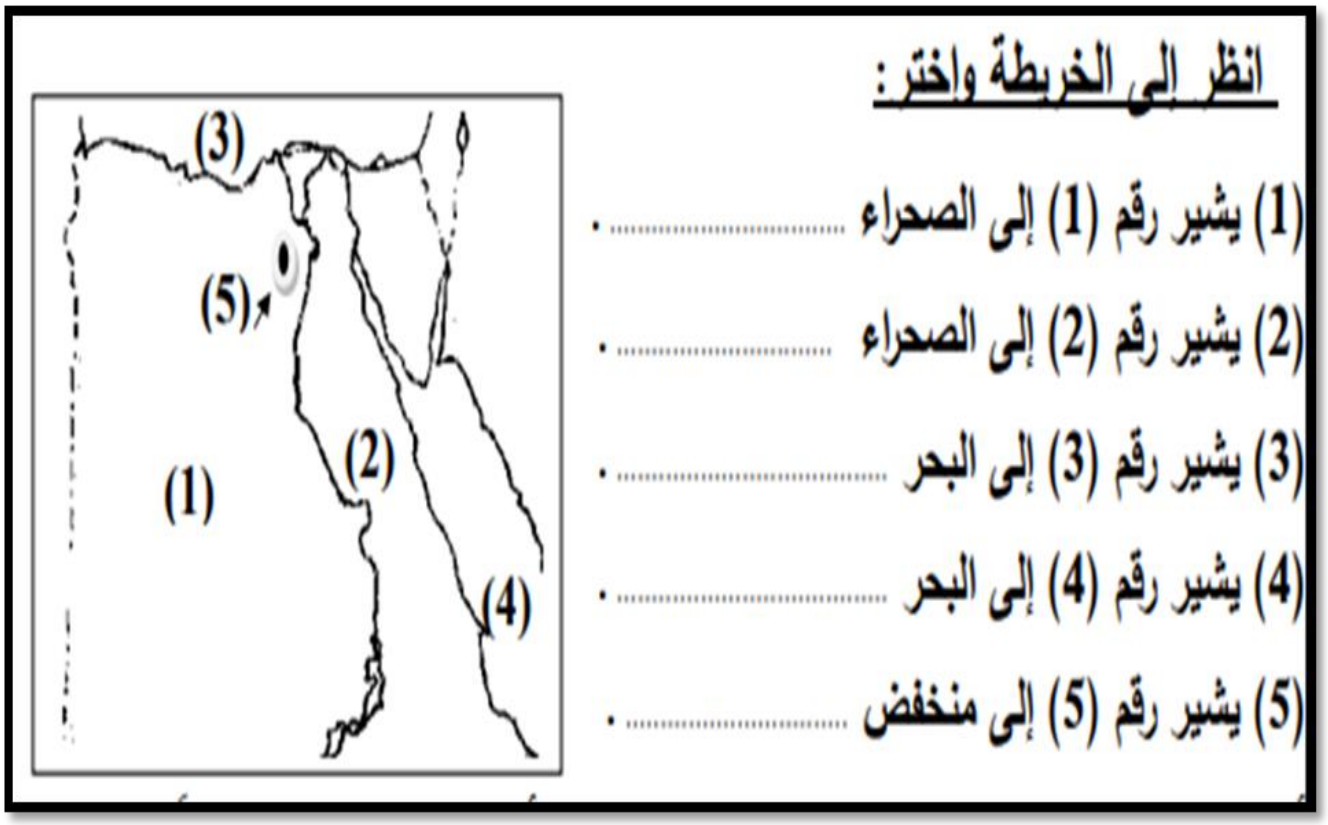

الدرس الثالث
مناخ مصر

- **مفاهيم الدرس :-**

1-الطقس :-

وصف حالة الجو خلال فترة زمنية قصيرة قد تكون يوماً أو اسبوعاً أو شهراً .

2-المناخ :

هو وصف حالة الجو خلال فترة زمنية طويلة قد تكون فصلا او سنة.

3- الاقليم المناخي:-

مساحة من الارض لها نفس الخصائص المناخية من حيث الحرارة والرياح والمطر

ملخص الدرس:-

❖ **فكر واجب :-**

❖**ما هي العوامل المؤثرة في مناخ مصر ؟**

1-الموقع الفلكي

- وهو السبب في وقوع معظم مساحة مصر في الاقليم الصحراوي الحار.

2-القرب أو البعد عن المسطحات المائية :

المناطق الساحلية	المناطق الداخلية
تتميز المناطق القريبة من المسطحات المائية باعتدال درجة حرارتها عن المناطق الداخلية.	هي المناطق البعيدة عن المسطحات المائية وتتميز بعدم الاعتدال في الحرارة

3-مظاهر السطح :

المناطق المنخفضة	المناطق المرتفعة
- ترتفع الحرارة في المناطق المنخفضة مثل الوديان.	تنخفض درجة الحرارة فوق المرتفعات مثل جبل سانت كاترين حيث تكسوه الثلوج شتاء

ثانيا:- هيا نتعرف على الفصول المناخية فى مصر

فصل الصيف (21 يونيو)	فصل الخريف (23 سبتمبر)	فصل الشتاء (21 ديسمبر)	فصل الربيع (21 مارس)
1- يبدأ عندما تتعامد الشمس علي مدار السرطان -الحرارة:- ترتفع خاصة في الجنوب والمناطق الداخلية	يبدأ عندما تتعامد الشمس علي دائرة الاستواء - المناخ معتدل	يبدأ عندما تتعامد الشمس علي مدار الجدي - الحرارة : تنخفض ويكون الجو بارداً وتسقط الامطار	يبدأ عندما تتعامد الشمس علي دائرة الاستواء -الحرارة : تعتدل وتنشط الرياح وخاصة رياح الخماسين

ثالثا: الاقاليم المناخية فى مصر:-

الأقليم الصحراوى الحار.	إقليم البحر المتوسط
1. يمتد في معظم الاراضي المصرية 2. شديد الحرارة صيفا شديد البرودة شتاءًا 3. الامطار نادرة قد تسقط فجأة علي شكل سيول	1. يقع شمال مصر 2. حار جاف صيفا دافئ ممطر شتاء 3.تعتمد الزراعة به علي مياه الامطار الشتوية.



- **اسئلة مجاب عنها:-**

السؤال الأول :- ما النتائج المترتبة على :

1-تعامد الشمس علي مدار الجدي ؟

ج) يسود المناخ البارد في المناطق الجبلية المرتفعة والمناطق الداخلية .

2- تعامد الشمس علي دائرة الاستواء؟

ج) اعتدال الجو في مصر ونشاط حركة الرياح خاصة رياح الخماسين.

3- هبوب رياح الخماسين.

ج)اصابة الانسان ببعض الامراض مثل امراض الجهاز التنفسي و الاضرار بالمحاصيل الزراعية.

- **اجب عن الآتى:-**

السؤال الاول : اختر الاجابة الصحيحة من بين الأقواس:

1.من العوامل المؤثرة في مناخ مصر .....

(الموقع الفلكي – مظاهر السطح – القرب او البعد عن المسطحات المائية – جميع مع سبق)

2.تدور الأرض مرة كل 365 يوماً وربع حول .....

(القمر – الشمس – المريخ – زحل)

3.تتعامد الشمس علي مدار الجدي فيكون فصل .....

(الصيف – الخريف – الربيع – الشتاء)

السؤال الثانى : اكتب ماتشير إليه العبارات الآتية:-

1-رياح محملة بالرمال والأتربة تسبب اصابة الأنسان ببعض الأمراض مثل أمراض الجهاز التنفسى .

[.....]

2- فصل تتكون فيه الثلوج على الجبال العالية .

[.....]

الدرس الرابع

النباتات الطبيعية و الحيوانات البرية

- **التنوع البيولوجى : -**

هو تنوع الحياه النباتية و الحيوانية على كوكب الأرض و تنوع البيئات التي تعيش فيها.



- **النباتات الطبيعية :-**

- نبات ينمو تلقائيا دون تدخل الانسان في زراعتها.

.



- **المحميات الطبيعية:**

- هي مساحة من الأرض أو المياه بها نباتات أو حيوانات أو أسماك نادرة مهددة بالانقراض مما يجب حمايتها.

- **التفاعل البيئى:**

- هو تفاعل الكائنات الحية مع البيئة المحيطة بطريقة تحافظ علي استمرارها واستقرارها.



- ملخص لتوزيع النباتات الطبيعية والحيوانات البرية فى مصر

الوادي والدلتا ومنخفض الفيوم	الصحاري المصرية	المناطق الساحلية
- ينمو النبات الطبيعي لوفرة التربة الخصبة والمياه العذبة مثل:- نبات البردي ونبات البوص - والحيوانات مثل:- الفئران- الذئاب- الثعالب وطيور مثل ابو قردان	-اهم النباتات:- الصبار- النخيل- التين الشوكي - اهم الحيوانات:- الابل- الزواحف- الغزلان	النبات الطبيعي هنا يتحمل ارتفاع نسبة الاملاح -اهم النباتات:- الرعوية- الشجرية- المثمرة - اهم الحيوانات:- الثعالب- الارانب البرية الطيور البرية مثل طائر النورس

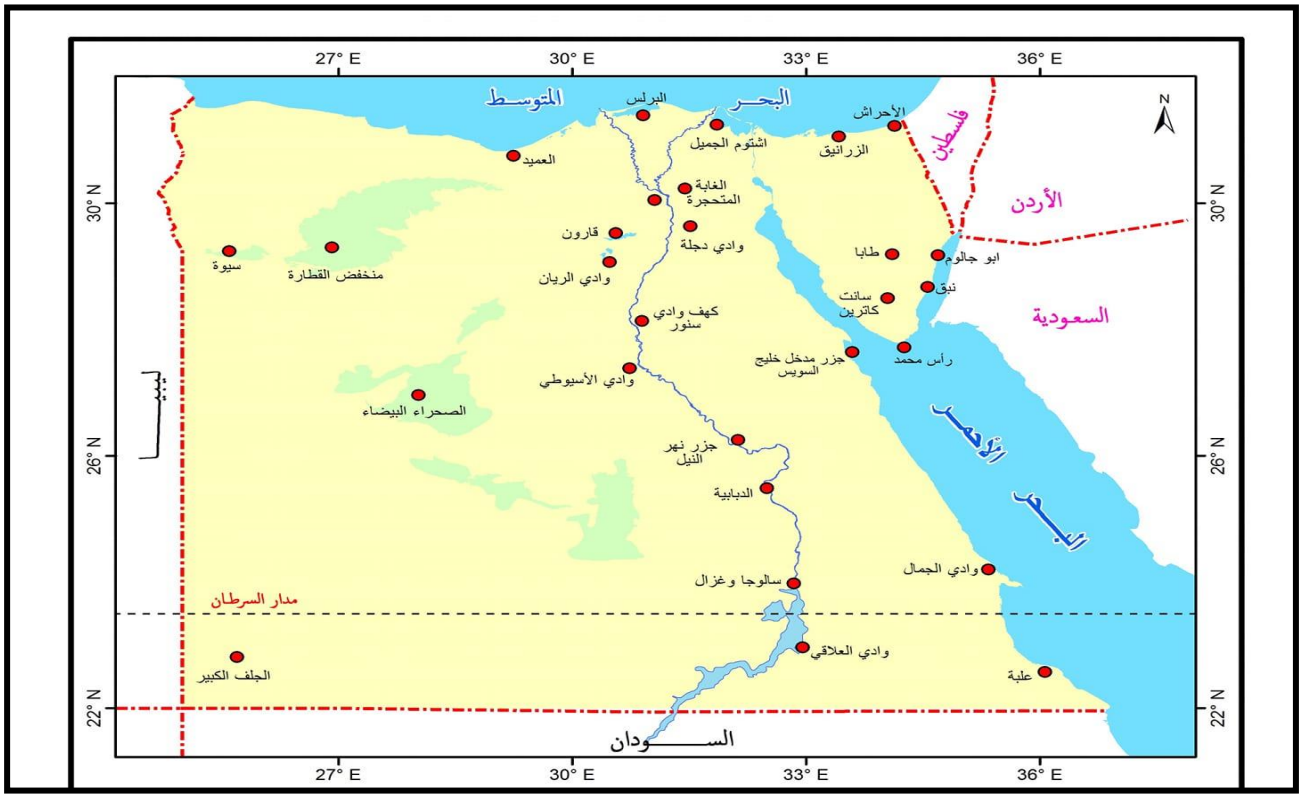

خريطة المحميات الطبيعية فى مصر

- **اسئلة مجاب عنها:-**

السؤال الأول : - بم تفسر:-

1- أسباب تنوع النباتات الطبيعية في مصر؟

ج) بسبب تنوع المناخ بين الصيف و الشتاء / مدى توافر موارد المياه / تنوع البيئات المصرية .

2-تتعرض الحياه البرية للعديد من الأخطار

ج) تغير المناخ / الصيد الجائر / إزالة النباتات الطبيعية لزراعة المحاصيل الغذائية / الزحف العمراني

3- ينمو النبات الطبيعي بالوادي والدلتا ومنخفض الفيوم.

ج) بسبب توافر المياه العذبة والتربة الخصبة

4- تتنوع النباتات الطبيعية والحيوانات البرية في المناطق الساحلية.

ج) لقدرتها علي تحمل نسبة الاملاح والتربة الرملية

- **اجب عن الاسئلة الاتية:-**

السؤال الاول :- صنف النباتات الطبيعية حسب المناطق التى تنمو بها :-

(البوص – النخيل والصبار – التين والزيتون – المانجروف – نبات البردي – التين الشوكي)

الوادي والدلتا	الصحاري المصرية	المناطق الساحلية

السؤال الثانى :- صوب ما تحتة خط :

1-تنمو اشجار اللوز والزيتون على ساحل البحر الأحمر.

.....

2-يعد نبات الصبار من اشهر النباتات الطبيعية فى البيئة الزراعية.

.....



الوحدة الثانية:- الحضارة المصرية القديمة

الدرس الاول:- عوامل قيام الحضارة المصرية القديمة

- **عوامل قيام الحضارة المصرية القديمة :**

- تنقسم عوامل قيام الحضارة المصرية القديمة إلي:

1-عوامل طبيعية: هى التى منحها الله لنا مثل :-

(1) نهر النيل:

- الذي ساعد علي قيام الزراعة و استقرار المصري القديم.

(2) موقع مصر الجغرافي المتميز:

- جعل مصر ملتقي قارات العالم القديم (اسيا- افريقيا- اوروبا).

(3) الحدود الطبيعية:-

- تتمثل في البحر الاحمر والبحر المتوسط والصحاري الشاسعة

(4) المناخ المعتدل:

- الذي ساعد علي تنوع المحاصيل الزراعية و الحفاظ علي الأثار.

(5) الثروات الطبيعية:

- التى استخدمها المصري القديم فى صناعة أدواته و الحلي و بناء الأهرامات و المعابد و نحت التماثيل.



2-عوامل بشرية:

(1) كفاح و ابداع المصريين القدماء:

- حيث تمكن من الابداع وإنشاء الحضارة المصرية العريقة.

(2) الجيش المصري:

- الذي يحمى البلاد و الوحدة بين المصريين و إقامة حكومة مركزية ترعى مصالح الشعب.



(3) الحكومة المركزية :

- إقامة حكومة مركزية لرعاية مصالح الشعب وإدارة شئون البلاد ومتابعة المشروعات.

- **مظاهر الحضارة المصرية القديمة:-**

1- سياسيا	2- اجتماعيا	3- دينيا	4- ثقافيا	5- اقتصاديا
المصريين اول شعوب العالم معرفة بالسياسة	تميز المصريون بالترابط الاجتماعي	تمسك المصريون القدماء بالقيم والاخلاق والايمان بالحياة بعد الموت	عرف المصريون القدماء الكتابة الهروغليفية وتميزوا في العلوم والفنون	تنوعت الانشطة الاقتصادية واهتموا بالزراعة والصناعة والتجارة

- **اسئلة مجاب عنها :-**

السؤال الاول : بم تفسر:-

1- **أهمية نهر النيل بالنسبة للحضارة المصرية القديمة.**

ج) ساعد على قيام الزراعة و استقرار المصري القديم

2- **أهمية وجود جيش قوى عند المصريين القدماء.**

ج) مهمته حماية البلاد من الأخطار

3- **تنوع الانشطة الاقتصادية في مصر القديمة.**

ج) بسبب تنوع الثروات الطبيعية

- **اجب عن الاسئلة الاتية :-**

السؤال الاول : أكمل العبارات الآتية بكلمات مناسبة:

1- مـــــن العوامـــــل البشـــــرية لقيـــــام الحضـــــارة المصـــــرية

..... ، .....

2- تعتبر مصر ملتقي قارات العالم .....

3- عرف المصريون القدماء الكتابة .....

الدرس الثاني:-

حياة المصري القديم (عصور ماقبل التاريخ)

- **اهم مفاهيم الدرس:-**
- **عصور ماقبل التاريخ:-**
  - **هي عصور ماقبل معرفة الانسان للكتابة**
- **ق .م (قبل الميلاد) :-**
  - **هي الفترة الزمنية التي سبقت ميلاد السيد المسيح عليه السلام.**
- **عصر ماقبل الاسرات:-**
  - **هي الفترة التي سبقت توحيد مصر تحت حكم ملك واحد.**

- **ملخص الدرس:-**

- تشمل عصور ماقبل التاريخ:-

1-العصر الحجري القديم	2-العصر الحجري الحديث
- عاش الانسان فوق الهضاب حياة غير مستقرة - اعتمد في غذائه علي صيد الحيوانات وجمع الثمار - اكتشف النار	- نزل إلي ضفاف النيل وعرف الزراعة والاستقرار - صنع أدواته من من الفخار والحجارة - بني منازله من الطوب اللبن

3- عصر المعادن	4- عصر ما قبل الاسرات
- اصبحت حياته اكثر استقرارا - اكتشف المعادن واستخدمها في صنع ادواته	ظهرت القري ثم المدن ثم الاقاليم حتي توحدت وكونت المملكتين

- **مقارنة بين مملكة الشمال ومملكة الجنوب:-**

	مملكة الشمال	مملكة الجنوب
العاصمة	مدينة بوتو	مدينة نخب
الشعار	نبات البردي	زهرة اللوتس
المعبود	ثعبان الكوبرا	انثي النسر
لون التاج	الاحمر	الابيض

- **مراحل قيام الوحدة:-**

الوحدة الاولي 4242 ق.م	الوحدة الثانية 3200 ق.م
-قامت بها مملكة الشمال وفشلت وانقسمت البلاد مرة اخري	- قامت علي يد الملك نعرمر (مينا) حاكم مدينة طيبة

- **اجب عن الاسئلة الاتية:-**

1- رتب عصور ماقبل التاريخ مما بين القوسين:-

(عصـر مـا قبـل الاسـرات - العصـر الحجـري القـديم - عصـر المعـادن - العصرالحجري الحديث)

..... ، .....

..... ، .....

2- اكتب صح او خطأ امام كل عبارة:-

1- بدأ العصر الحجري القديم عند معرفة الانسان الكتابة

( )

2- انتقـل المصـري القـديم مـن الهضـاب إلـي وادي النيـل فـي العصـر الحجري الحديث ( )

الدرس الثالث:-

حياة المصري القديم (العصور التاريخية)

- **اهم مفاهيم الدرس:-**

1- عصور التاريخية:-

هي العصور التي بدأت بعد معرفة الانسان للكتابة واستخدمها في تسجيل احداثه اليومية.

- **ملخص الدرس:-**

- تشمل عصورالتاريخية:-

1-العصر العتيق

اشهر الملوك	الخصائص
ـ الملك نعرمر موحد القطرين ومؤسس الاسرة الاولي.	ـ إقامة أقدم حكومة مركزية في التاريخ

2-عصر الدولة القديمة

اشهر الملوك	الخصائص
1-الملك زوسرصاحب الهرم المدرج 2-الملك خوفو صاحب الهرم الاكبر 3-الملك خفرع صاحب الهرم الاوسط وتمثال ابو الهول	ـ سمي بعصر بناه الاهرامات لكثرة ما تم تشييده من اهرامات في ذلك العصر ـ تميز بوحود حكومة مركزية قوية

3-عصر الدولة الوسطي

اشهر الملوك	الخصائص
1-الملك سنوسرت الثالث:- حفر قناة سيزوستريس 2-الملك امنمحات الثالث أنشأ سد اللاهون بالفيوم	- عصر الرخاء الاقتصادي - حدثت نهضة اقتصادية كبيرة

4-عصر الدولة الحديثة

اشهر الملوك	الخصائص
1-الملك تحتمس الثالث:- انتصر علي اراء اسيا في معركة مجدو 2-الملك رمسيس الثاني:- انتصر علي الحيثيين في معركة قادش وعقد معهم أول معاهدة سلام في التاريخ 3-الملك خفرع :- صاحب الهرم الاوسط وتمثال ابو الهول	- سمي بعصر المجد الحربي لتطور الجيش المصري وتحقيقه انتصارات عديدة

- **اجب عن الاسئلة الاتية:-**

- اكمل العبارات الاتية بما يناسبها من كلمات:-

1- تبدأ العصور التاريخية بمعرفة الانسان للـ.....

2- يبدأ العصر العتيق بقيام الملك..... بتوحيد البلاد

3- يعرف عصر الدولة ..... بعصر بناه الاهرامات

الدرس الرابع:-

مصر في عصري البطالمة والرومان

- **ملخص الدرس:-**

الاسكندر الاكبر

مولده	تعليمه	دخوله مصر	اهم اعماله	وفاته
ولد في مقدونيا عام 356 ق.م	تعلم علي يد الفيلسوف ارسطو	احتل مصر عام 332 ق.م	خطط لبناء مدينة الاسكندرية	توفي في مدينة بابل بالعراق عام 323 ق.م

حكم البطالمة في مصر

اشهر الملوك	1- بطلميوس الاول مؤسس الدولة 2- الملكة كليوباترا السابعة اخر الملوك في مصر
الحياة الاقتصادية	1- الزراعة:- ادخلوا السواقي وحفروا الترع في مصر 2- الصناعة:- ازدهرت صناعة الزيوت والمنسوجات 3- أنشأ منارة الاسكندرية لإرشاد السفن
الحياة الثقافية والدينية	1- بناء مكتبة الاسكندرية 2- بناء جامعة الاسكندرية 3- احترموا الديانة المصرية القديمة

العمارة	- معبد دندرة - معبد ادفو - معابد فيلة بأسوان

نهاية الدولة	- ضعف الحكام - الهزيمة في معركة اكتيوم البحرية

حكم الرومان في مصر

الحياة الاقتصادية	الحياة الثقافية	نهاية الدولة
-اهتموا بزراعة القمح - احتلت الاسكندرية المركز الثاني بعد روما كمركز تجاري	- انشاء المسرح الروماني بالاسكندرية - إنشاء معبد الرأس السوداء	الفتح الاسلامي علي يد عمرو بن العاص عام 641م

- **اجب عن الاسئلة الاتية:-**

- **اكتب كلمة صح او خطأ امام كل عبارة:-**

1- رحب المصريون بالاسكندر الاكبر لانه خلصهم من الحكم الروماني ( )

2- استمر الاضطهاد الروماني للمصريين حتي دخل الاسكندر الاكبر مصر ( )

3- خطط بطلميوس الاول لبناء مدينة الاسكندرية لتكون عاصمة جديدة لمصر ( )

الوحدة الثالثة:- كنوز مصر

الدرس الاول : الثروة المعدنية ومصادر الطاقة

- **اهم المفاهيم الواردة بالدرس :**

- **التعدين :**

- عملية استخراج المعادن من باطن الارض او بالقرب من السطح .



- **الطاقة المتجددة:**

- هي الطاقة النظيفة التي لا تنفذ مع كثرة استخدامها.

- **<u>الطاقة الكهرومائية</u>:**

- هي الطاقة الكهربائية المولدة من المساقط المائية.

- **<u>عصر المعادن</u>:**

- هو العصر الذى بدأ فيه الأنسان المصرى القديم فى صناعة ادواته من المعادن.



ملخص الدرس:-

- الثروة المعدنية في مصر:-

1- الذهب	الحديد	المنجنيز	النحاس	الفوسفات
يستخرج من منجم السكري بالصحراء الشرقية ويستخدم في صناعة الحلي وعلاج بعض الامراض	يستخرج من الواحات البحرية في الصحراء الغربية ويستخدم في صناعة الالات والسكك الحديدية	يستخرج من منجم ام بجمة في سيناء ويستخدم في صناعة الصلب والدهانات	يستخرج من محافظة البحر الاحمر ويستخدم في صناعة اسلاك الكهرباء وصناعة السبائك	يستخرج من منطقة ابو طرطور بالصحراء الغربية ويستخدم في صناعة الاسمدة الكيميائية والمبيدات الحشرية

- **مصادر الطاقة في مصر:-**

مصادر الطاقة غير المتجددة	مصادر الطاقة المتجددة
1- الفحم **يستخرج من جبل المغارة ويستخدم في صناعة الصلب** **2- البترول** **يستخرج من حقول خليج السويس وشمال الصحراء الشرقية والغربية ويستخدم في توليد الطاقة وصناعة البلاستيك** **3- الغاز الطبيعي** **يستخرج من حقل ظهر في البحر المتوسط ويستخدم في الاغراض المنزلية وكوقود لبعض السيارات**	**1- الطاقة الكهرومائية** **تولد من المساقط المائية علي نهر النيل مثل خزان اسوان والسد العالي** **2- الطاقة الشمسية** **تولد من محطات تولد الكهرباء من الشمس مثل محطة قرية بنبان بأسوان ومحطة الكريمات بالجيزة** **3- طاقة الرياح** **تولد من محطات توليد الكهرباء من الرياح مثل محطة جبل الزيت ومحطة الزعفرانة بمحافظة البحر الاحمر**

- **وضح الجهود التي تبذلها الدولة لتنمية الثروة المعدنية.**

1- البحث عن بدائل المعادن

2- سن القوانين لحماية الثروة المعدنية

3- تشجيع الاستثمار المستدام.

- **اجب عن الاسئلة الاتية**

السؤل الاول: أمامك خريطة صماء لمصر وضح مدلول الأرقام الآتية:-

1- منطقة يستخرج منها معدن الفوسفات .....

2-منطقة يستخرج منها معدن الحديد .....

3- منجم يتسخرج منه معدن المنجنيز .....

4-منطقة يستخرج منها معدن الذهب .....

5-محافظة يستخرج منها معدن النحاس .....

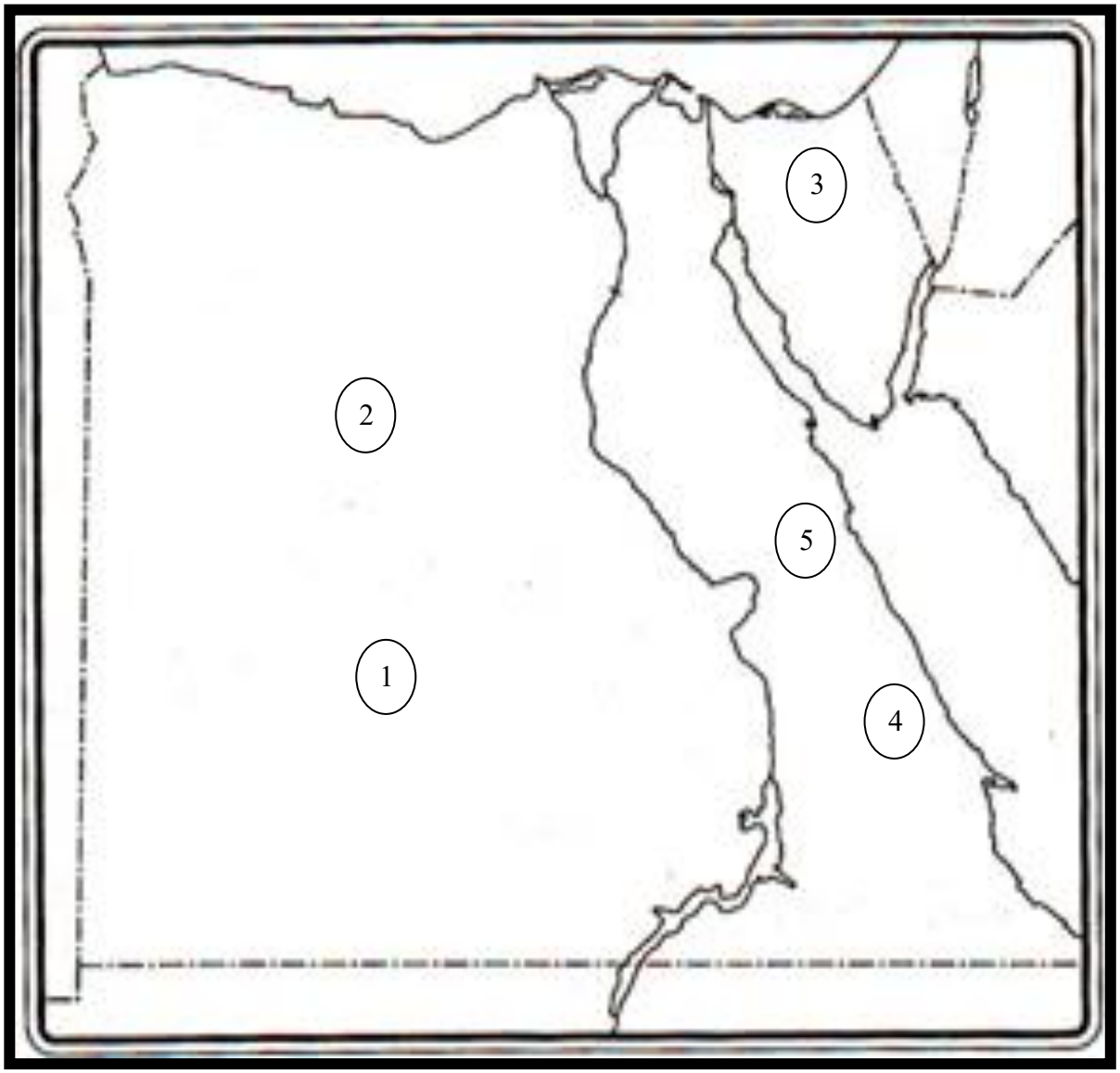

الدرس الثاني : موارد المياه

- **اهم المفاهيم الواردة بالدرس:-**
- **تحلية مياه البحر:**

- معالجة الاملاح والمعادن من مياه البحر لتحويلها إلي مياه صالحة للاستخدام البشري.

- **تدوير مياه الصرف الزراعى:**

- إعادة استخدام المياه التي تم استخدامها في الزراعة بعد معالجتها.

- **بردية تورين:**

- هي بردية من أهم البرديات التي وصفت نهر النيل.

ملخص الدرس .
انواع المياه في مصر

• المياه المالحة	• المياه العذبة
- هى تتمثل فى البحار والبحيرات المالحة والمياه الجوفية المالحة - **تستخدم في:-** - 1- استخراج الاملاح - 2- صيد الاسماك - 3- استخراج مصادر الطاقة مثل البترول والغاز الطبيعي	- هى تتمثل فى نهر النيل والبحيرات العذبة والمياه الجوفية العذبة والأمطار - **تستخدم في:-** - 1- الزراعة والصناعة - 2- صيد الاسماك - 3- استخدامات منزلية

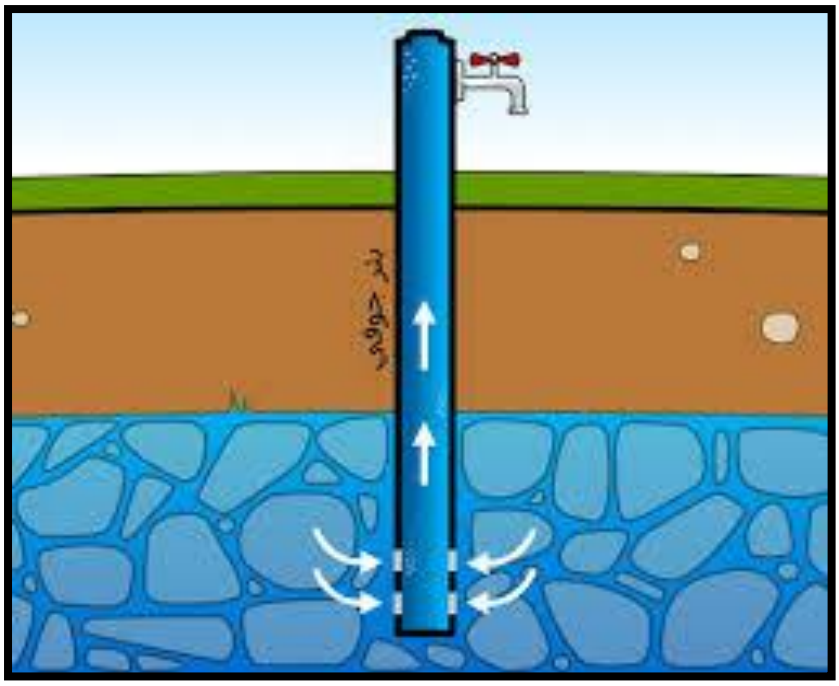

- **دور الدولة والمواطنين للحفاظ علي الموارد المائية:-**

1- دور الدولة	2- دور المواطن
- تطبيق القوانين لمواجهه التلوث المائي - حملات توعية لترشيد الاستهلاك - إقامة المشروعات لتقليل الفاقد	- ترشيد الاستهلاك - عدم إلقاء المخلفات في المياه - المشاركة في المبادرات البيئية لحماية المياه

- **اجب عن الاسئلة الاتية:-**

السؤال الاول : اكمل العبارات الاتية بكلمات مناسبة :

1-تنقسم الموارد المائية الي الماء .....والماء.....

2-من موارد المياه المالحة في مصر.....و .....

3-نهر النيل من موارد المياه .....

الدرس الثالث : المشروعات القومية (رؤية مصر للمستقبل)

- **اهم المفاهيم الواردة بالدرس :**
- **التنمية المستدامة :**

- استثمار الموارد لتلبية احتياجات السكان دون الاضرار بحقوق الاحيال المستقبلية

- **ملخص الدرس:-**

أهداف رؤية مصر 2030:-

1- الارتقاء بجودة حياة المواطن

2- تحقيق العدالة الاجتماعية

3- بناء اقتصاد متنوع

4- الحفاظ علي الموارد الطبيعية والبيئية

1- مشروعات التنمية الزراعية والثروة الحيوانية

الدلتا الجديدة	بركة غليون
في الصحراء الغربية غرب الدلتا	للاستزراع السمكي بمحافظة كفر الشيخ

2- مشروعات التنمية العمرانية:-

العاصمة الادارية الجديدة	تطوير العشوائيات
توجد في شرق القاهرة وهي مدينة ذكية وبها البرج الايقوني (أطول برج في افريقيا)	مثل تطوير حي السيدة زينب وحي الفسطاط

3- مشروعات تطوير النقل والمواصلات

- القطار الكهربائي - المونوريل - الاتوبيس الترددي	- مشروع قناة السويس الجديدة	- تطوير الطريق الدائري - محور روض الفرج - كوبري تحيا مصر

4- مشروعات الطاقة:

مشروع بنبان	محطة جبل الزيت
- يوجد في محافظة اسوان - توليد الطاقة الشمسية	- توليد الكهرباء من الرياح - ينتج نصف انتاج مصر من الكهرباء المولدة من الرياح



- **اجب عن الاسئلة الاتية:-**

السؤال الاول : اكمل العبارات الاتيه بكلمات مناسبة

1-رؤية مصر 2030 تهدف إلي .....

2-مشـــروع ..... أحـــد المشـــروعات الزراعيـــة العملاقـــة بالصحراء الغربية.

3-يهدف مشروع بركة غليون إلي .....

السؤل الثانى : أمامك خريطة صماء لمصر وضح مدلول الأرقام الآتية:-

1- مشروع استزراع سمكي .....

2- محطة لتوليد الكهرباء من الطاقة الشمسية .....

3- محطة توليد الكهرباء من الرياح .....

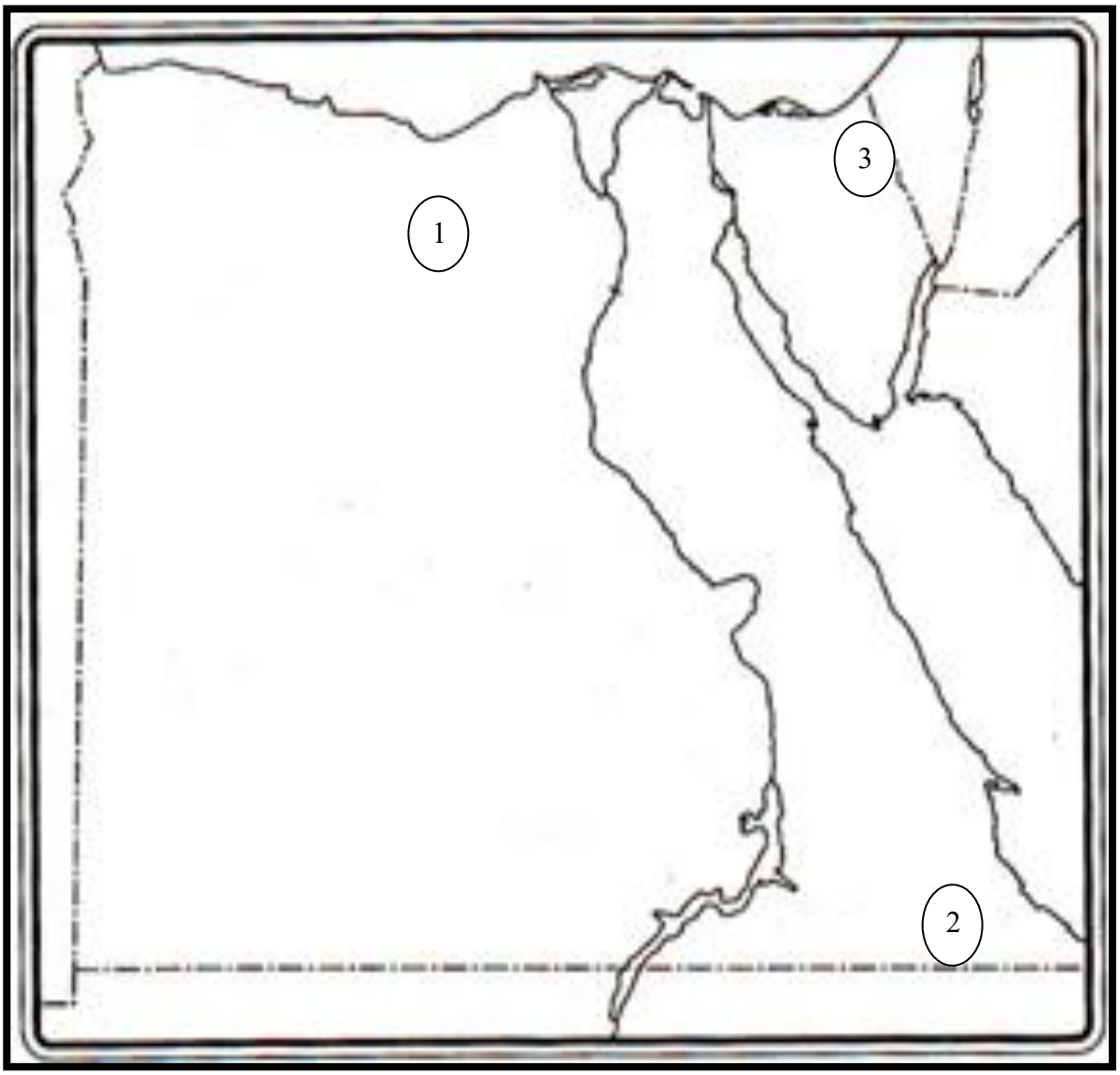

مع تمنيات أسرة الدراسات الاجتماعية بمزيد من النجاح والتفوق